# Cahier d'exercices mathématiques

**Numéro d'inventaire** : 2015.8.4389
**Auteur(s)** : Sylvie Nadal
**Type de document** : travail d'élève
**Période de création** : 4e quart 20e siècle
**Matériau(x) et technique(s)** : papier, papier cartonné
**Description** : Cahier agrafé, couverture souple rouge, impression en noir, 1ère de couverture avec le logotype de la marque "conquérant" représenté par une silhouette stylisée d'un chevalier sur son cheval cabré, dessous est inscrit le nom de la marque, en bas "cahier" complété à l'encre bleue par le nom de l'élève, "Ecole...", "Classe...", "Nom..." non complétés. Réglure seyes, encre bleue, rouge, verte, crayon de bois, feutre rouge. 2 feuilles à grands carreaux (tracés à la main) en partie découpées insérées en fin de cahier, 4 morceaux de ces mêmes feuilles, collés sur des pages.
**Mesures** : hauteur : 22 cm ; largeur : 16,8 cm
**Notes** : Cahier d'exercices de mathématiques, classe de CM a priori: Géométrie (tracer des droites parallèles, perpendiculaires), angles, mesures de longueur, périmètre, durée, conversions de mesures de longueur, monnaie, addition, soustraction, multiplication de nombres décimaux, constructions géométriques, quadrilatères.
**Mots-clés** : Calcul et mathématiques
**Filière** : École primaire élémentaire
**Niveau** : Cours moyen
**Autres descriptions** : Nombre de pages : Non paginé
Commentaire pagination : 50 p. manuscrites sur 52 p.
Langue : Français
couv. ill.

Mardi 9 mai

P128 A b)

faux

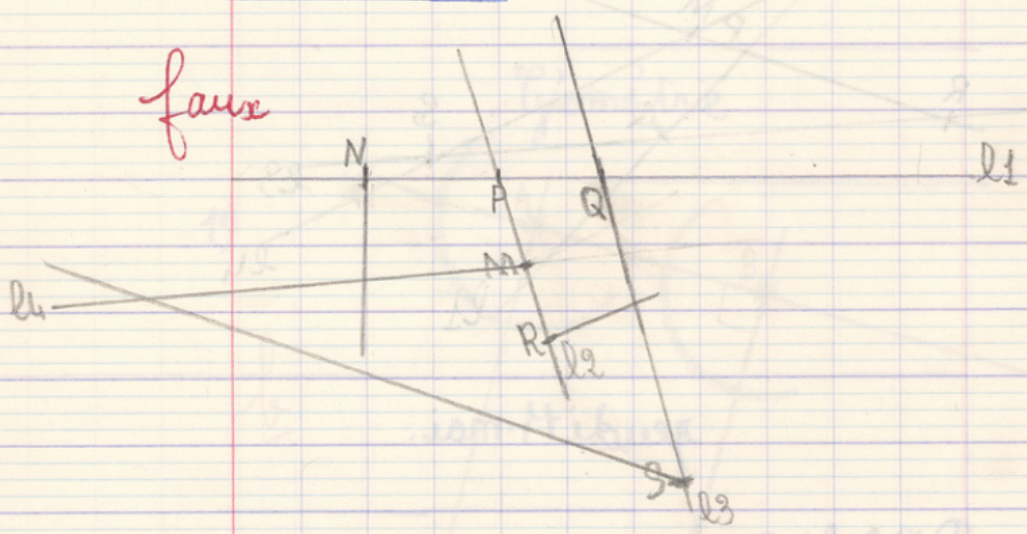


P130 B n°2

dessin d = ~~5~~ 6 directions
dessin b : 4 directions
dessin e : ~~4~~ 6 directions.

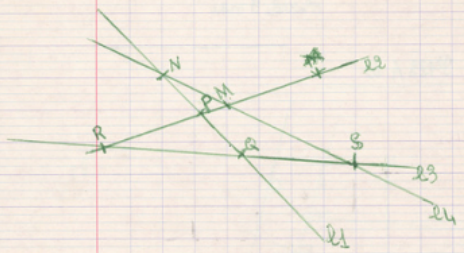


jeudi 11 mai.

P129 b) ②

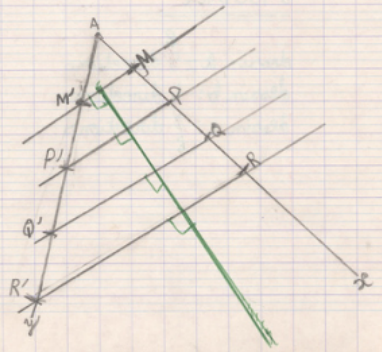


Les droites MM', PP', QQ', RR' sont parallèles.

Vendredi 12 mai

Géométrie

1)

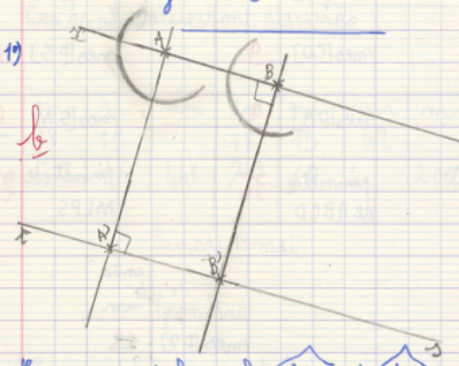


En comparant les angles $\widehat{A'Ax}$ et $\widehat{B'Bx}$ je trouve qu'ils ont la même ouverture. Les droites t s et xy sont parallèles.

2) Fiche 144

| | unité : ⊢ |
|---|---|
| mes [AB] | 9 |
| mes [BC] | 9 |
| mes [CD] | 9 |
| mes [DA] | 9 |
| périmètre de ABCD | 36 |

| | unité : le cm |
|---|---|
| mes [ML] | 6 |
| mes [LP] | 6 |
| mes [PS] | 6 |
| mes [SM] | 6 |
| périmètre de MLPS | 24 |

| | unité le mm |
|---|---|
| mes [IJ] | ~~18~~ 33 |
| mes [JK] | ~~18~~ 33 |
| mes [KL] | ~~18~~ 33 |
| mes [LI] | ~~18~~ 33 |
| périmètre de IJKL | ~~72~~ 132 |

Périmètre de ABCD : 36 ⊢
Périmètre de IJKL : ~~72 mm~~ 132 mm
Périmètre de MLPS : 24 cm

Chaque quadrilatère a un angle droit.
Les quadrilatères sont des carrés

| unité | cm | m | mm | dm | cm | mm | m | dm |
|---|---|---|---|---|---|---|---|---|
| mesure du côté | 13 | 19 | | 18 | 15 | 52 | | 45 |
| périmètre | 52 | 76 | 448 | 72 | 60 | | 2000 | |

Samedi 13 mai

Géométrie

1) Tracer une droite xy et placer un point C à l'extérieur de xy. Mesurer la distance de C à xy.

Mesure de C à xy = 3 cm