Cahier du jour n°2

Numéro d'inventaire : 2015.8.3511
Auteur(s) : Mathilde Gouttard
Type de document : travail d'élève
Période de création : 1er quart 21e siècle
Date de création : 2005 (entre) / 2006 (et)
Matériau(x) et technique(s) : papier, papier cartonné
Description : Cahier agrafé, couverture souple rouge , 1ère de couverture avec une bande verticale le long du bord droit, blanche (4 x 22 cm) décorée d'un motif constitué de petits traits noirs et du logotype de la marque "Plein Ciel" . Réglure seyes, encre bleue, vert, rouge, noir, crayon de bois. 22 polycopiés et 9 morceaux de feuilles blanches collés.
Mesures : hauteur : 22 cm ; largeur : 16,7 cm
Notes : Cahier du jour de CM1 comportant des exercices: géométrie (construction quadrilatères, triangles), dictées, mesures (longueurs, masses), vocabulaire (famille de mots, préfixes, différents sens d'un mot), conjugaison (présent les 3 gr., imparfait, futur, passé composé), écriture-copie, calculs (soustraction, multiplication, division), lecture-compréhension, résolution de problèmes, grammaire (accord sujet-verbe, COD et COI, complément du nom, proposition relative), numération (fractions, fractions décimales, nombres décimaux).
Mots-clés : Cahiers journaliers, mensuels et de roulement de l'enseignement élémentaire
Calcul et mathématiques
Filière : École primaire élémentaire
Autres descriptions : Nombre de pages : Non paginé.
Commentaire pagination : 94 p. manuscrites sur 94 p.
Langue : Français

GOUTTARD Mathilde

Cahier du jour n°2

année 2005/2006

Mardi 8 novembre 2005

Géométrie

1) Trace un parallélogramme quelconque de 4 cm sur 2 cm.

tb

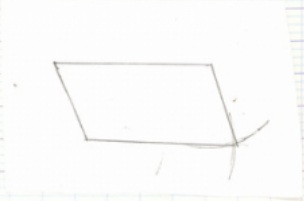

2) Trace un losange de 3 cm de cotés.

tb

3) Trace un rectangle de 6 cm de longeur et 3 cm de largeur.

tb

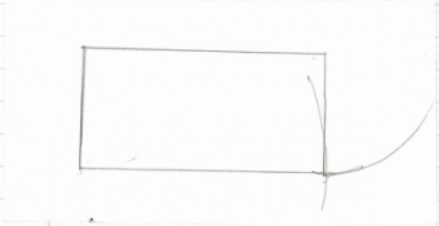

4) Trace un carré de 2 cm de cotés

bien

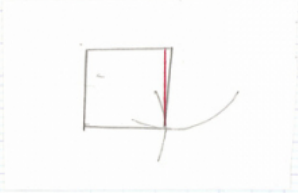

Jeudi 10 Novembre 2005

Grammaire

ex n°6 p 32

~~Encouragé par les spectateurs~~, le coureur fournit un gros effort.
~~Sur cette paroi de roches friables,~~ les alpinistes avancent très prudemment.
~~C'est à seize heures, sous un soleil de plomb, que~~ le départ de la course a été donné ~~devant des milliers de spectateurs~~.
~~Malgré de nombreux tirs,~~ les deux équipes ont fait match nul ~~0 à 0, hier soir~~.
~~En constatant la blessure du Français,~~ l'arbitre a arrêté le combat ~~avant la fin du round~~.

ab

ex n°3 p 38

Le cavalier retenait son cheval.
GNS GV

tb

Des empreintes de pas couvrent le sol.
GNS GV

Pauline aime les contes fantastiques
GNS GV

L'homme bleu a disparu.
GNS GV

Mathématiques

1. Trace un parallélogramme quelconque de 4 cm sur 2 cm.

2. Trace un losange de 2 cm de côtés

3. Trace un rectangle de 4 cm sur 3 cm

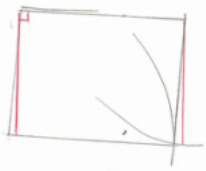

bien

4. Trace un carré de 1 cm de côté.